☺ □를 사용한 식으로 나타내고 답을 구하세요.

풍선 15개가 있습니다. 몇 개가 터져서 9개가 남았습니다. 터진 풍선은 몇 개일까요?



식 15 − □ = 9 답 6 개

풍선 12개가 있습니다. 몇 개가 터져서 6개가 남았습니다. 터진 풍선은 몇 개일까요?



식 _____ 답 ____ 개

풍선 18개가 있습니다. 몇 개가 터져서 12개가 남았습니다. 터진 풍선은 몇 개일까요?



식 _____ 답 ____ 개

풍선 25개가 있습니다. 몇 개가 터져서 14개가 남았습니다. 터진 풍선은 몇 개일까요?



식 _____ 답 ____ 개

정답

ⓒ 공공수학연구소