부분과 **전체**를 생각하며 문제를 해결해 보세요.

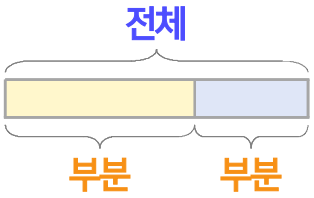

종이비행기를 어제 6개, 오늘 7개 접었습니다. 어제와 오늘 접은 종이비행기는 모두 몇 개일까요?

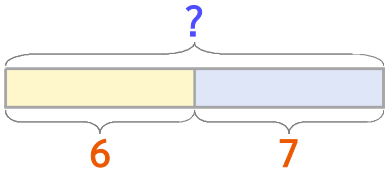

식 6+7=13 답 13개

연필 12자루 중에서 4자루를 깎았습니다. 깎지 않은 연필은 몇 자루일까요?

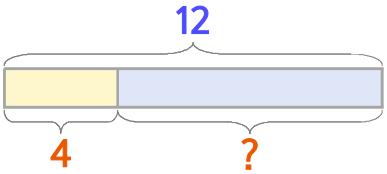

식 12−4=8 답 8자루

1 종이비행기를 어제 9개, 오늘 9개 접었습니다. 어제와 오늘 접은 종이비행기는 모두 몇 개일까요?

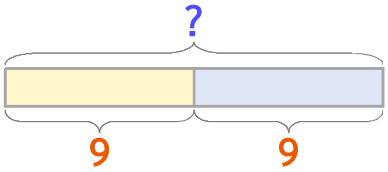

식 답

2 연필 15자루 중에서 9자루를 깎았습니다. 깎지 않은 연필은 몇 자루일까요?

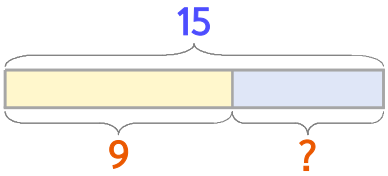

식 답

3 연필을 샀는데 깎은 것이 6자루이고 깎지 않은 것이 6자루입니다. 연필을 모두 몇 자루 샀나요?

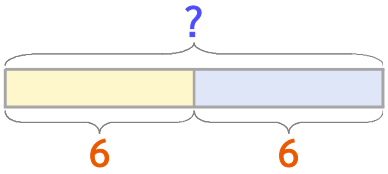

식 답

4 어제와 오늘 접은 종이배를 합하면 17개입니다. 어제 9개를 접었다면 오늘 몇 개를 접었나요?

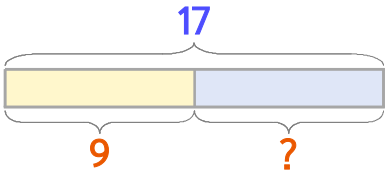

식 답

정답