처음과 **나중**을 생각하며 문제를 해결해 보세요.

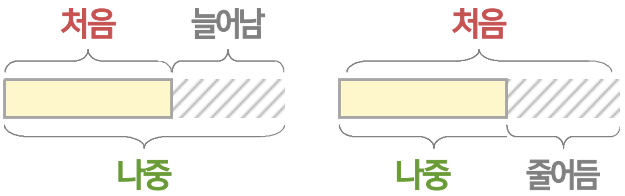

빵집에 케이크 9개가 있는데 5개를 더 만들었습니다. 케이크는 모두 몇 개가 되었을까요?

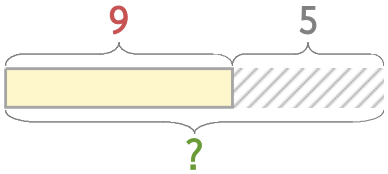

식 9+5=14 답 14개

빵집에 케이크 12개가 있는데 이중에서 5개를 팔았습니다. 남은 케이크는 몇 개일까요?

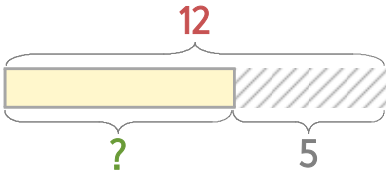

식 12−5=7 답 7개

1 빵집에 생크림케이크 3개가 있는데 8개를 더 만들었습니다. 생크림케이크는 모두 몇 개가 되었을까요?

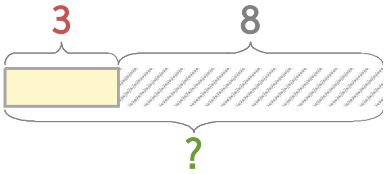

식 답

2 빵집에 초코케이크 14개가 있는데 이중에서 5개를 팔았습니다. 남은 초코케이크는 몇 개일까요?

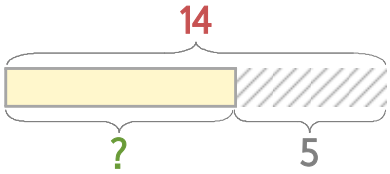

식 답

3 유나가 도화지 4장을 가지고 있었는데 9장을 더 받았습니다. 도화지는 모두 몇 장이 되었나요?

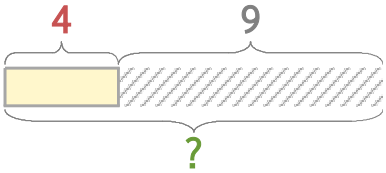

식 답

4 진아가 도화지 13장을 가지고 있었는데 7장을 친구에게 주었습니다. 남은 도화지는 몇 장일까요?

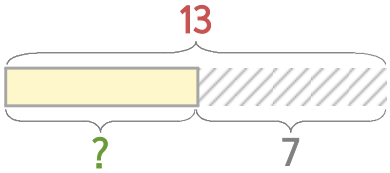

식 답

정답