두 수의 크기를 **비교**하며 문제를 해결해 보세요

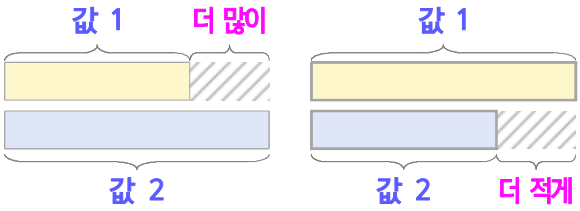

게임을 해서 지수는 15점을 얻었고 민호의 점수는 지수보다 7점 적습니다. 민호는 몇 점일까요?

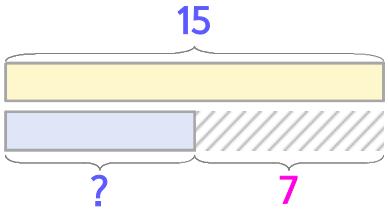

식 15−7=8 답 8점

게임을 해서 은지는 9점을 얻었고 민서의 점수는 은지보다 4점 많습니다. 민서는 몇 점일까요?

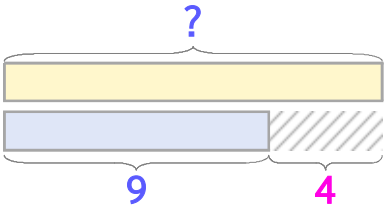

식 9+4=13 답 13점

1 동물원에 사슴은 17마리 있고 기린은 사슴보다 9마리 적습니다. 기린은 몇 마리일까요?

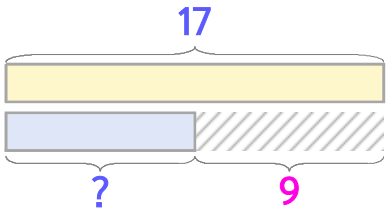

식 답

2 동물원에 기린은 8마리 있고 타조는 기린보다 7마리 많습니다. 타조는 몇 마리일까요?

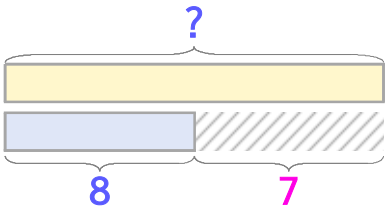

식 답

3 주말 동안 진수는 책을 5권 읽었고 성아는 진수보다 9권 많이 읽었습니다. 성아는 책을 몇 권 읽었을까요?

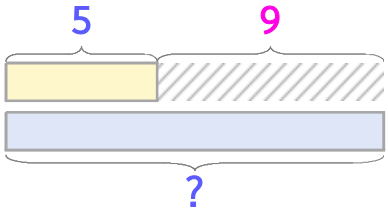

식 답

4 주말 동안 진수는 심부름을 14번 했고, 성아는 진수보다 9번 적게 했습니다. 성아는 심부름을 몇 번 했을까요?

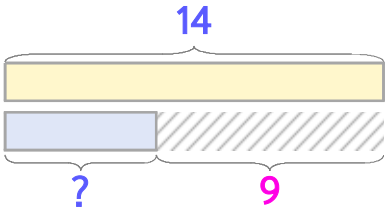

식 답

정답