부분과 **전체**를 생각하며 문제를 해결해 보세요.

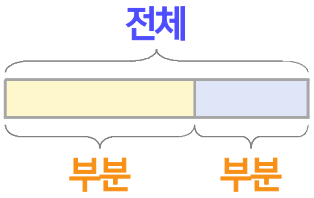

파란 풍선과 노란 풍선을 합해서 35개가 있습니다. 이중에서 노란 풍선이 31개이면 파란 풍선은 몇 개일까요?

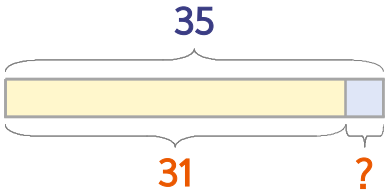

식 35−31=4 답 4개

놀이터에 여학생이 8명, 남학생이 11명 있습니다. 놀이터에 있는 학생은 모두 몇 명일까요?

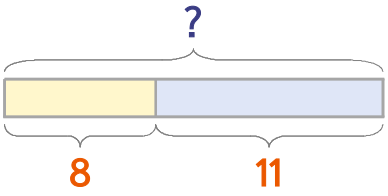

식 8+11=19 답 19명

1 파란 풍선과 노란 풍선을 합해서 42개가 있습니다. 이중에서 노란 풍선이 31개이면 파란 풍선은 몇 개일까요?

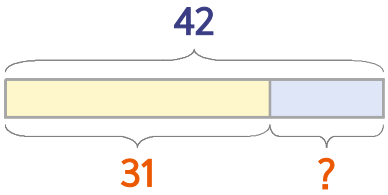

식 답

2 놀이터에 남학생이 9명, 여학생이 20명 있습니다. 놀이터에 있는 학생은 모두 몇 명일까요?

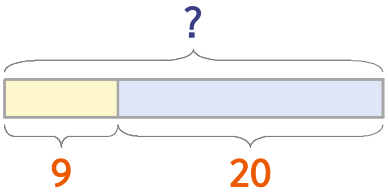

식 답

3 운동장에 남학생이 20명, 여학생이 33명 있습니다. 운동장에 있는 학생은 모두 몇 명일까요?

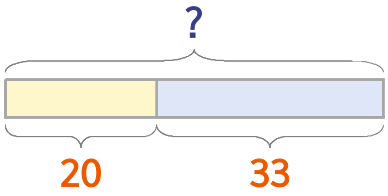

식 답

4 보라색 색종이와 초록색 색종이가 합해서 50장 있습니다. 이중에서 보라색 색종이가 40장이면 초록색 색종이는 몇 장일까요?

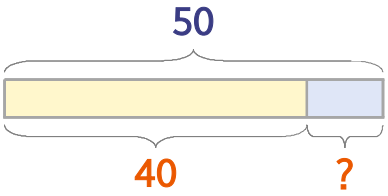

식 답

정답