문제를 읽고 알맞은 식을 세워 답을 구하세요.

1 바나나 15개를 5명이 접시 5개에 똑같이 나누어 담으려고 합니다. 접시 한 개에 몇 개씩 담으면 되나요?

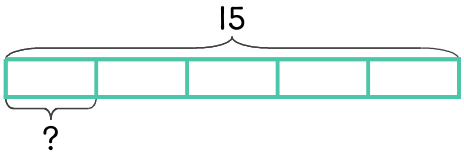

식 15÷5=3 답 3개

2 팬케이크 24개를 접시 8개에 똑같이 나누어 담으려고 합니다. 접시 한 개에 몇 개씩 담으면 되나요?

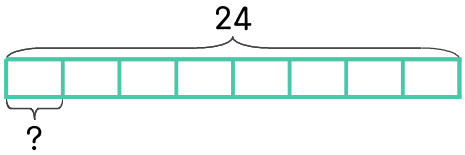

식 _____ 답 _____

3 책 63권을 책꽂이 아홉 칸에 똑같이 나누어 꽂으려고 합니다. 책꽂이 한 칸에 몇 권씩 꽂으면 되나요?

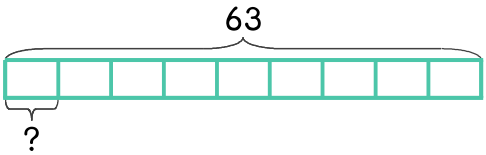

식 _____ 답 _____

4 미소는 동화책을 6일 동안 똑같이 나눠서 읽으려고 합니다. 동화책이 30권일 때 하루에 몇 권씩 읽으면 되나요?

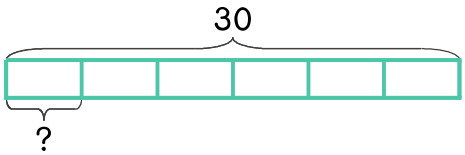

식 _____ 답 _____

정답