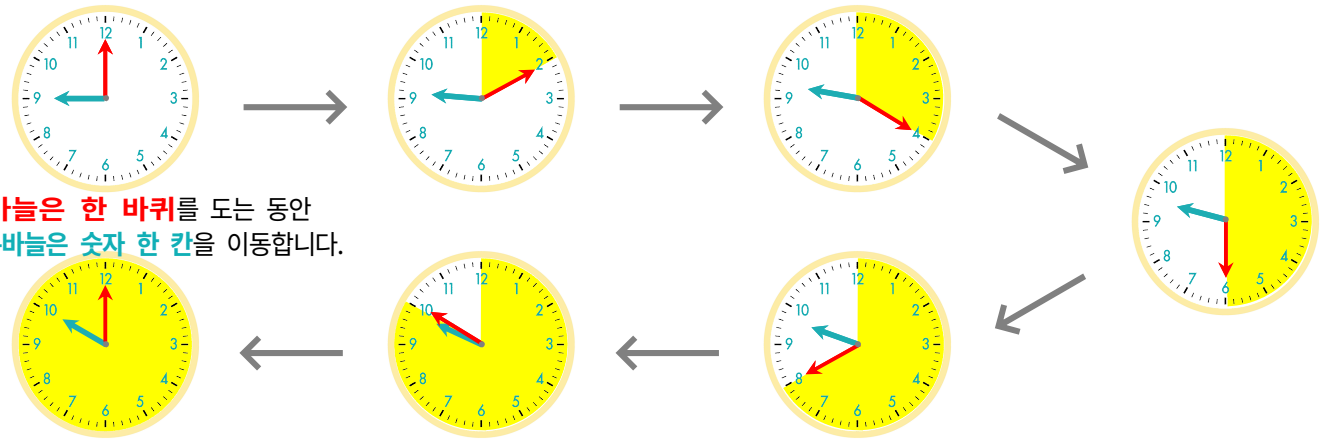

긴바늘은 한 바퀴를 도는 동안
짧은바늘은 숫자 한 칸을 이동합니다.

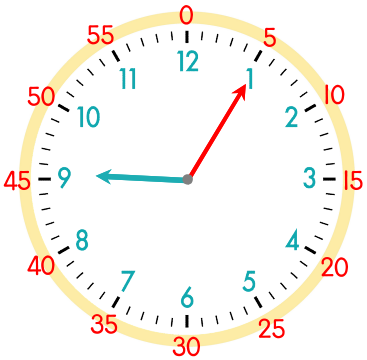

짧은바늘이 9를 지났으므로
9 시 5 분
긴바늘이 1을 가리키므로

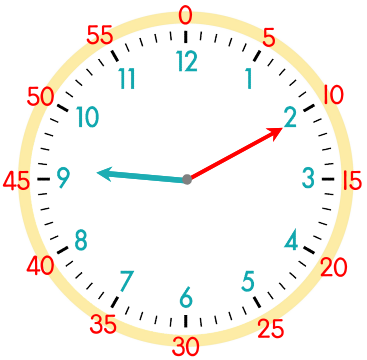

짧은바늘이 9를 지났으므로
9 시 ___ 분
긴바늘이 2를 가리키므로

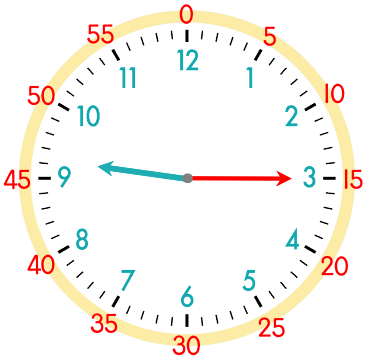

짧은바늘이 9를 지났으므로
9 시 ___ 분
긴바늘이 3을 가리키므로

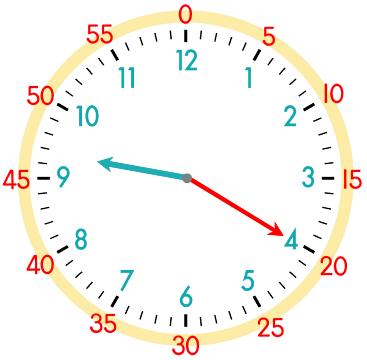

짧은바늘이 9를 지났으므로
9 시 ___ 분
긴바늘이 4를 가리키므로

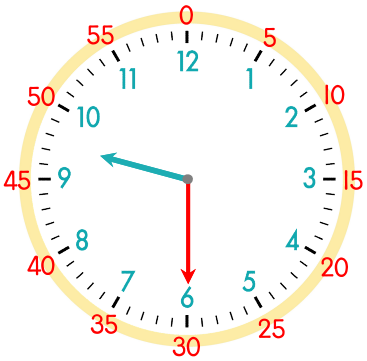

짧은바늘이 9를 지났으므로
___ 시 ___ 분
긴바늘이 6을 가리키므로

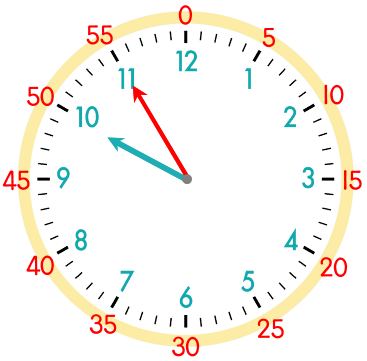

짧은바늘이 9를 지났으므로
___ 시 ___ 분
긴바늘이 11을 가리키므로

정답